Obrazek 1

5×5 · Rozwiązanie na stronie 9

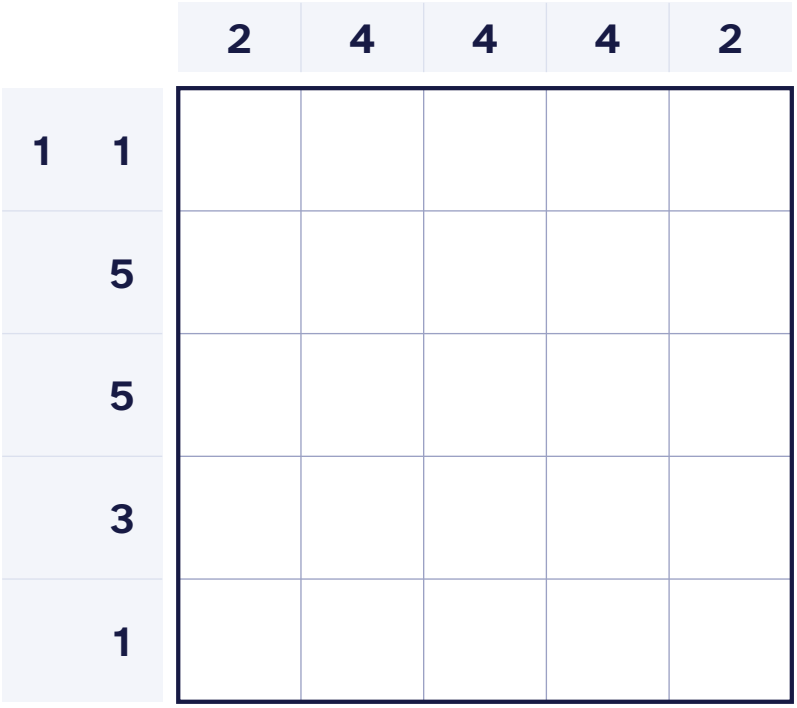

Jak grać

Zamalowuj kratki, aby odkryć ukryty obrazek. Liczby obok każdego wiersza i nad każdą kolumną to długości bloków zamalowanych kratek w tej linii, po kolei, z co najmniej jedną pustą kratką między dwoma blokami. Kratki, które na pewno są puste, oznaczaj małym x.

Obrazek 2

5×5 · Rozwiązanie na stronie 9

			1		1	
			1	3	1	
		3	1	1	1	3
		3				
1	1	1				
		5				
	1	1				
		3				

Jak grać

Zamalowuj kratki, aby odkryć ukryty obrazek. Liczby obok każdego wiersza i nad każdą kolumną to długości bloków zamalowanych kratek w tej linii, po kolei, z co najmniej jedną pustą kratką między dwoma blokami. Kratki, które na pewno są puste, oznaczaj małym x.

Obrazek 3

5×5 · Rozwiązanie na stronie 9

		1	4	4	4	1
	1					
	3					
	5					
	3					
1	1					

Jak grać

Zamalowuj kratki, aby odkryć ukryty obrazek. Liczby obok każdego wiersza i nad każdą kolumną to długości bloków zamalowanych kratek w tej linii, po kolei, z co najmniej jedną pustą kratką między dwoma blokami. Kratki, które na pewno są puste, oznaczaj małym x.

Obrazek 4

5×5 · Rozwiązanie na stronie 9

	1	1 2	5	1 2	1
1					
3					
5					
1					
3					

Jak grać

Zamalowuj kratki, aby odkryć ukryty obrazek. Liczby obok każdego wiersza i nad każdą kolumną to długości bloków zamalowanych kratek w tej linii, po kolei, z co najmniej jedną pustą kratką między dwoma blokami. Kratki, które na pewno są puste, oznaczaj małym x.

Obrazek 5

5×5 · Rozwiązanie na stronie 9

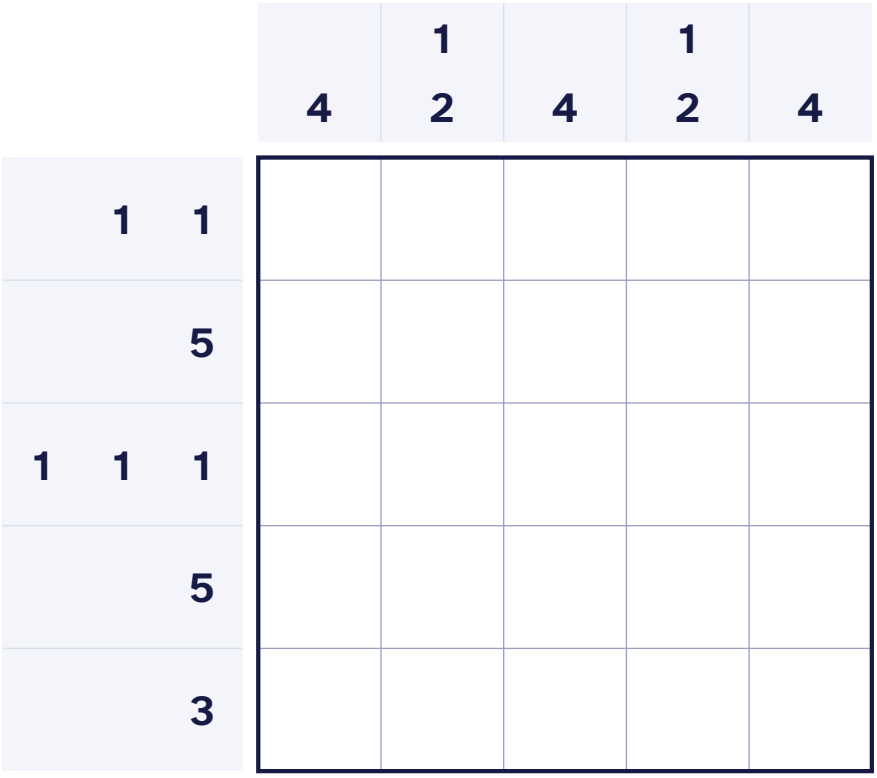

Jak grać

Zamalowuj kratki, aby odkryć ukryty obrazek. Liczby obok każdego wiersza i nad każdą kolumną to długości bloków zamalowanych kratek w tej linii, po kolei, z co najmniej jedną pustą kratką między dwoma blokami. Kratki, które na pewno są puste, oznaczaj małym x.

Obrazek 6

10×10 · Rozwiązanie na stronie 9

	1 1	2 2	3 3	4 3	 10	5 3	4 3	3 3	2 2	1 1
1										
2										
4										
6										
8										
10										
1										
10										
8										
6										

Jak grać

Zamalowuj kratki, aby odkryć ukryty obrazek. Liczby obok każdego wiersza i nad każdą kolumną to długości bloków zamalowanych kratek w tej linii, po kolei, z co najmniej jedną pustą kratką między dwoma blokami. Kratki, które na pewno są puste, oznaczaj małym x.

Obrazek 7

10×10 · Rozwiązanie na stronie 9

		4	6	8	8	1 8	10	8	9	1 6	4
	2										
1	2										
	6										
	8										
	10										
	10										
	10										
	10										
	8										
	6										

Jak grać

Zamalowuj kratki, aby odkryć ukryty obrazek. Liczby obok każdego wiersza i nad każdą kolumną to długości bloków zamalowanych kratek w tej linii, po kolei, z co najmniej jedną pustą kratką między dwoma blokami. Kratki, które na pewno są puste, oznaczaj małym x.

Obrazek 8

10×10 · Rozwiązanie na stronie 9

			7	9	2 4	7	7	7	7	2 4	9	7
	1	1										
	2	2										
	3	3										
		10										
2	4	2										
2	4	2										
		10										
		10										
		8										
		6										

Jak grać

Zamalowuj kratki, aby odkryć ukryty obrazek. Liczby obok każdego wiersza i nad każdą kolumną to długości bloków zamalowanych kratek w tej linii, po kolei, z co najmniej jedną pustą kratką między dwoma blokami. Kratki, które na pewno są puste, oznaczaj małym x.

Rozwiązania



1 · Serce



2 · Uśmiech



3 · Dom



4 · Drzewko



5 · Kotek

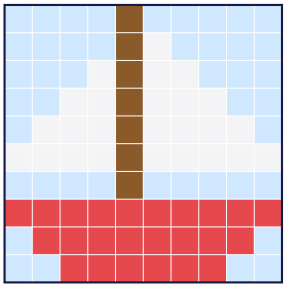

6 · Żaglówka



7 · Jabłko

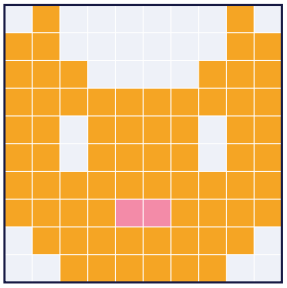

8 · Kot

O tym zestawie

Możesz go bezpłatnie drukować i kopiować do domu, szkoły lub domu seniora. Sprzedaż i odsprzedaż są zabronione.

Nowa zagadka codziennie, za darmo i bez rejestracji: https://logikdaily.com/pl/obrazki-logiczne/

Wszystkie obrazki w tym zestawie narysowano dla LogikDaily.