Desafio 1

5×5 · Solução na página 9

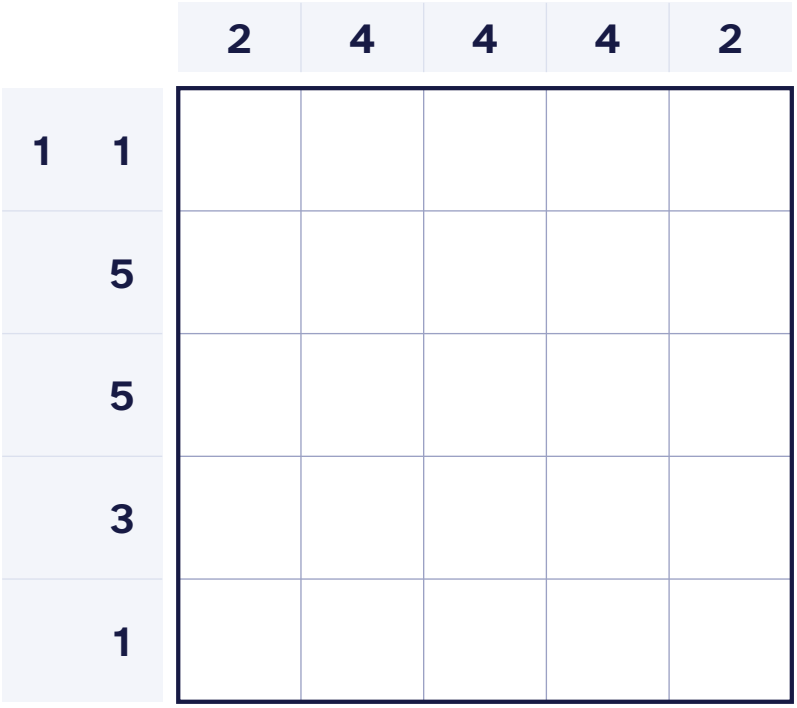

Como jogar

Pinte casas para revelar um desenho escondido. Os números ao lado de cada linha e acima de cada coluna são os tamanhos dos blocos de casas pintadas daquela linha, em ordem, com pelo menos uma casa vazia entre dois blocos. Marque com um x pequeno as casas que com certeza estão vazias.

Desafio 2

5×5 · Solução na página 9

			1 1 1		1 1 1	
		3				
1	1	1				
		5				
	1	1				
		3				

Como jogar

Pinte casas para revelar um desenho escondido. Os números ao lado de cada linha e acima de cada coluna são os tamanhos dos blocos de casas pintadas daquela linha, em ordem, com pelo menos uma casa vazia entre dois blocos. Marque com um x pequeno as casas que com certeza estão vazias.

Desafio 3

5×5 · Solução na página 9

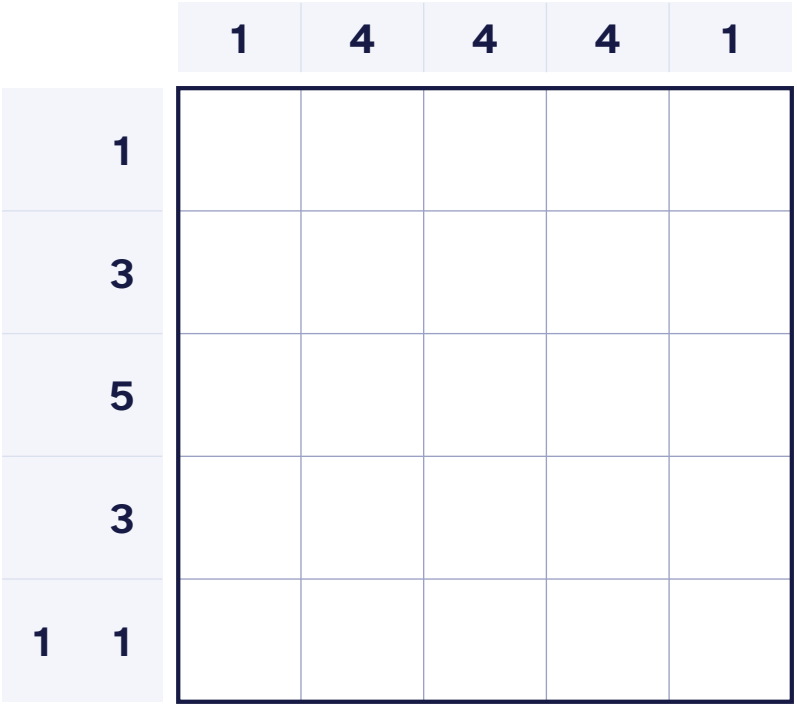

Como jogar

Pinte casas para revelar um desenho escondido. Os números ao lado de cada linha e acima de cada coluna são os tamanhos dos blocos de casas pintadas daquela linha, em ordem, com pelo menos uma casa vazia entre dois blocos. Marque com um x pequeno as casas que com certeza estão vazias.

Desafio 4

5×5 · Solução na página 9

	1	2 1	5	2 1	1
1					
3					
5					
1					
3					

Como jogar

Pinte casas para revelar um desenho escondido. Os números ao lado de cada linha e acima de cada coluna são os tamanhos dos blocos de casas pintadas daquela linha, em ordem, com pelo menos uma casa vazia entre dois blocos. Marque com um x pequeno as casas que com certeza estão vazias.

Desafio 5

5×5 · Solução na página 9

			4	1 2	4	1 2	4
	1	1					
		5					
1	1	1					
		5					
		3					

Como jogar

Pinte casas para revelar um desenho escondido. Os números ao lado de cada linha e acima de cada coluna são os tamanhos dos blocos de casas pintadas daquela linha, em ordem, com pelo menos uma casa vazia entre dois blocos. Marque com um x pequeno as casas que com certeza estão vazias.

Desafio 6

10×10 · Solução na página 9

	1 1	2 2	3 3	4 3	 10	5 3	4 3	3 3	2 2	1 1
1										
2										
4										
6										
8										
10										
1										
10										
8										
6										

Como jogar

Pinte casas para revelar um desenho escondido. Os números ao lado de cada linha e acima de cada coluna são os tamanhos dos blocos de casas pintadas daquela linha, em ordem, com pelo menos uma casa vazia entre dois blocos. Marque com um x pequeno as casas que com certeza estão vazias.

Desafio 7

10×10 · Solução na página 9

		4	6	8	8	18	10	8	9	16	4
	2										
1	2										
	6										
	8										
	10										
	10										
	10										
	10										
	8										
	6										

Como jogar

Pinte casas para revelar um desenho escondido. Os números ao lado de cada linha e acima de cada coluna são os tamanhos dos blocos de casas pintadas daquela linha, em ordem, com pelo menos uma casa vazia entre dois blocos. Marque com um x pequeno as casas que com certeza estão vazias.

Desafio 8

10×10 · Solução na página 9

			7	9	2 4	7	7	7	7	2 4	9	7
	1	1										
	2	2										
	3	3										
		10										
2	4	2										
2	4	2										
		10										
		10										
		8										
		6										

Como jogar

Pinte casas para revelar um desenho escondido. Os números ao lado de cada linha e acima de cada coluna são os tamanhos dos blocos de casas pintadas daquela linha, em ordem, com pelo menos uma casa vazia entre dois blocos. Marque com um x pequeno as casas que com certeza estão vazias.

Gabarito



1 · Coração



2 · Carinha feliz



3 · Casa



4 · Arvorezinha



5 · Gatinho

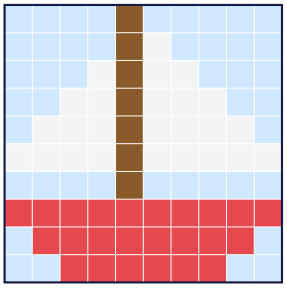

6 · Veleiro



7 · Maçã

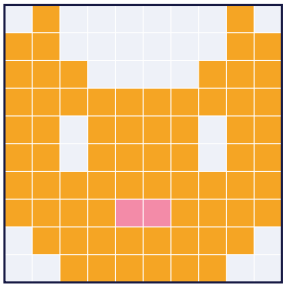

8 · Gato

Sobre este caderno

Pode ser impresso e copiado de graça para casa, escola ou casas de repouso. Não é permitido vender nem revender.

Um desafio novo todo dia, grátis e sem cadastro, em https://logikdaily.com/pt/nonogramas/

Todos os desenhos deste caderno foram criados para o LogikDaily.